2026-2027 5. SINIF MATEMATİK 1. DÖNEM 1. YAZILI ÇALIŞMA SORULARI

1) Aşağıda verilen boşlukları uygun çizim, sembol veya okunuş ile doldurunuz.

ÇİZİM	SEMBOLLE GÖSTERİM	OKUNUŞU
		
		PRS AÇISI
		
	KL]	
		

2) Verilen kareli zemin üzerine **AB** doğru parçasını, **HD** doğrusunu, **CE** ışınını çiziniz.

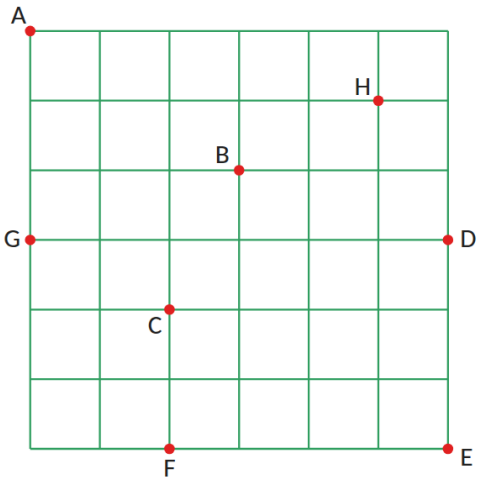

3) a) Verilen doğruların birbirlerine göre durumlarını belirtiniz.

b) Uygun sembol ile gösterip gerçek yaşamdan örnek veriniz.



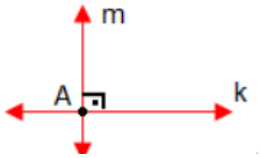

4) Yandaki görsele göre;

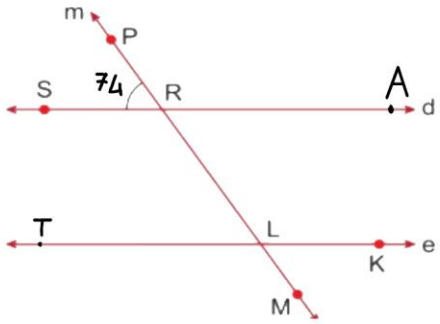

a) Komşu açılara örnek veriniz.

b) Ters açılara örnek veriniz.

c) PRA açısının ölçüsü nedir?

5) Aşağıda verilen görselde;



a) Akrep ile yelkovan arasındaki açı kaç derecedir?

b) Açının tümleri ve bütünleri kaç derecedir?

6) Birinin ölçüsü diğerinin 50 fazlası olan bütünler açılardan küçük olanın ölçüsü kaç derecedir?

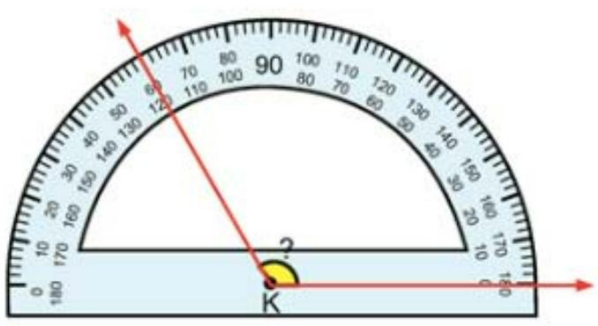

7) Yandaki şekilde verilen **K** açısının ölçüsü ve çeşidi nedir?

8) **Yandaki şekle göre, "?" ile gösterilen açıyı bulunuz.**

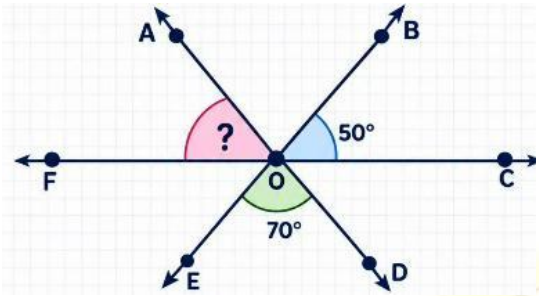

9)

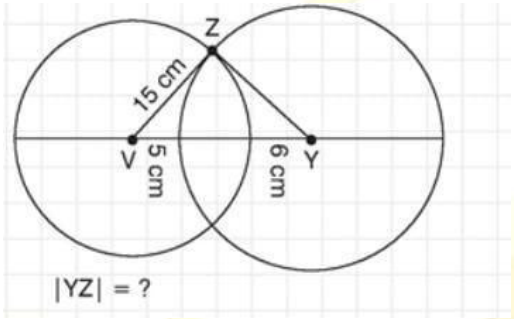

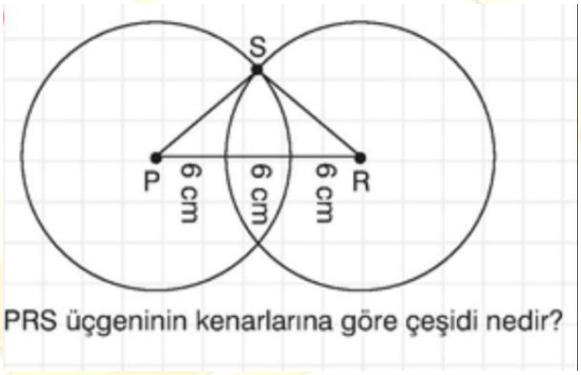

10) Aşağıda verilen şekilde ACB açısının ölçüsü ve ACB üçgeninin açılarına göre çeşidi nedir?

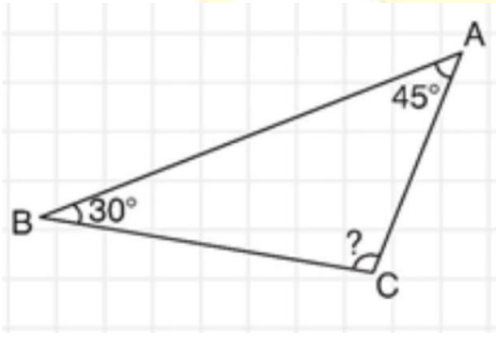

11) Aşağıda verilen şekillerden düzgün çokgen olanları işaretleyiniz.

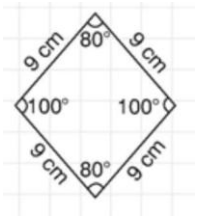

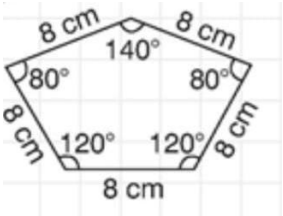

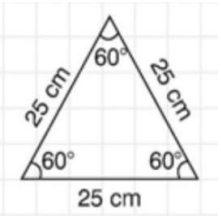

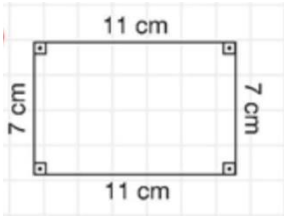

12) **Aşağıda verilen şekildeki doğru parçalarından köşegen belirtenleri yazınız.**

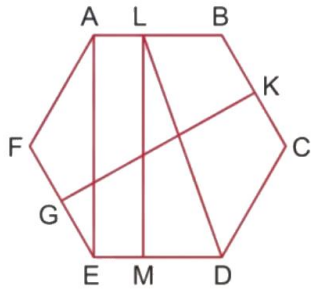

13) **Verilen görselde oluşan çokgen çeşitlerini yazınız**.

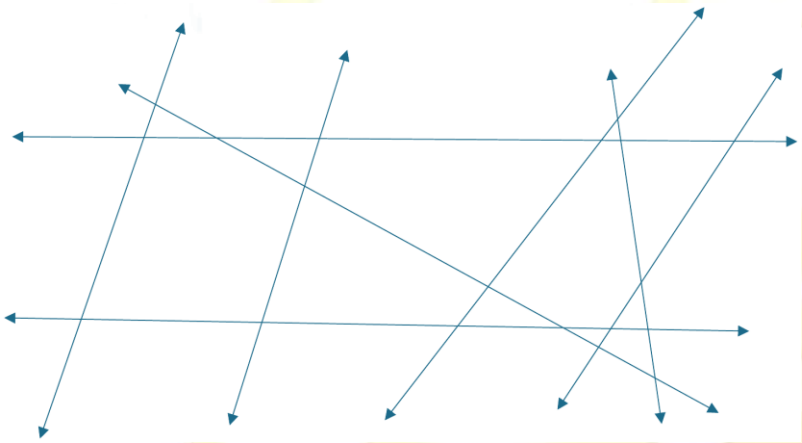

14) **Aşağıda verilen üçgenleri uygun araçları kullanarak kenarlarına ve açılarına göre çeşitlendiriniz.**

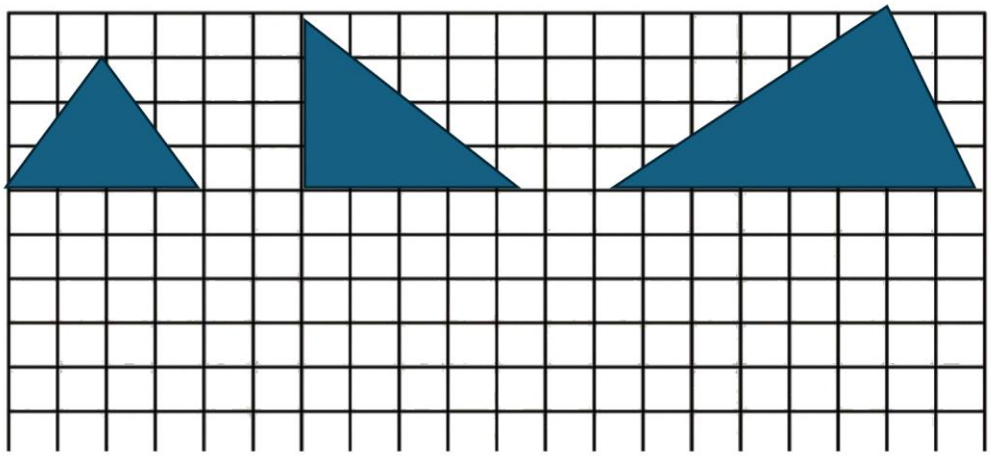

15) **Aşağıda verilen eş çemberler ile merkezleri ve kesişim noktalarını birleştirerek üçgenler oluşturunuz ve üçgenleri kenarlarına göre isimlendiriniz.**

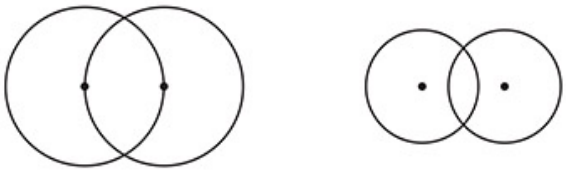

MATEMATİK ÖĞRETMENİ
HACER ÖZGAN

#eğitimdePARLA